Les enseignants de CE1
de la circonscription de METZ-SUD
proposent

EVALUATIONS MI-PARCOURS CE1

Mathématiques

Livret élève

NOMBRES ET CALCUL

Exercice 1 :
Relie le mot-nombre à l'écriture chiffrée correspondante.

Soixante-quatorze	**101**
Deux-cent-six	**74**
Quatre-vingt-quinze	**206**
Deux-cent-soixante	**95**
Cent-un	

Dictée de nombres

……	……	……	……	……	……

Exercice 2 :
Regarde la droite graduée et écris les nombres de la bande dans les cases qui conviennent.

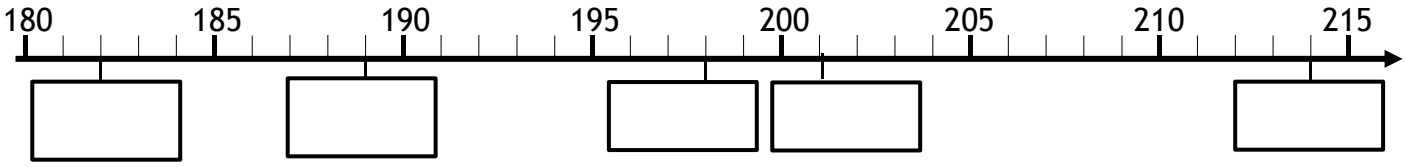

201 **182** **214** **198** **189**

Exercice 3 :
Range les nombres du plus petit au plus grand :

50	**246**	**124**	**352**	⇒	…… …… …… ……
123	**105**	**180**	**171**	⇒	…… …… …… ……

Exercice 4 :
Regarde bien la suite de nombres dans chaque ligne et complète-la.

A

15	20	25	30	35	……	……	……	……	……

B

20	30	40	50	60	……	……	……	……	……

C

160	170	180	190	200	……	……	……	……	……

Exercice 5 :
Donne les résultats de :

A	B	C	D	E
……	……	……	……	……

Exercice 6 :
Pose et effectue chacune des opérations dans le cadre en dessous.

85 + 13	127 + 113	121 + 76	47 - 12	78 - 41

Exercice 7 :
Calcule ces opérations en ligne.

A	35 + 12 =
B	16 + 8 + 4 =
C	22 + 3 + 8 =
D	110 + 40 =

Exercice 8 :
Donne les résultats de :

A	B	C	D	E
……	……	……	……	……

Exercice 9 :
Écris le résultat des calculs que je vais dicter.

A	
B	
C	
D	
E	

F	
G	
H	
I	
J	

Exercice 10 :
Dans la classe de CE1, il y a 14 garçons et 12 filles.

Combien y-a-t-il d'élèves dans cette classe ?

Réponse : Dans cette classe, il y a …… élèves.

Exercice 11 :
Lucas a 8 ans. Il a 2 ans de plus que Tristan.

Qui est le plus âgé ?

Réponse : …… est l'enfant le plus âgé.

Quel est l'âge de Tristan ?
(Tu peux faire un dessin pour t'aider.)

Réponse : Tristan a …… ans.

Exercice 12 :
Le matin en arrivant à l'école, Arthur a 5 billes. Le soir, il rentre chez lui avec 15 billes.

Combien en a-t-il gagné pendant la journée ?
(Tu peux faire un dessin pour t'aider.)

Réponse : Arthur a gagné ….…… billes.

Exercice 13 :
Un club de tennis achète 4 boîtes de 5 balles.

Combien de balles le club a-t-il acheté ?
(Tu peux faire un dessin pour t'aider.)

Réponse : Le club a acheté ……balles.

GEOMETRIE

Exercice 1 :

Complète chaque polygone et donne son nom.

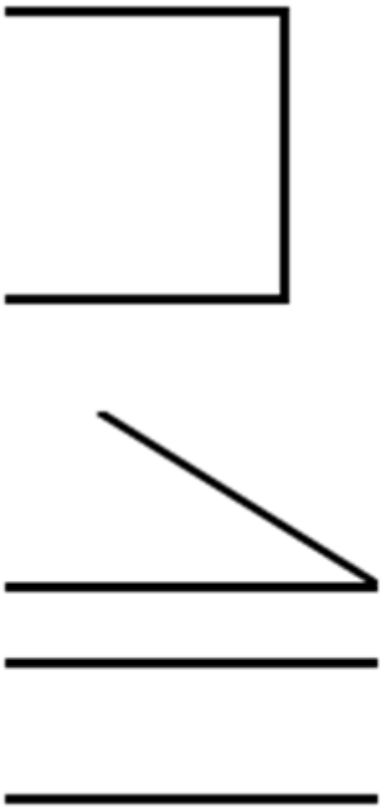

……

……

……

Exercice 2 :

A l'aide de la règle, vérifie et entoure les bonnes réponses.

①Les points A, B, C sont alignés.

②Les points A, D, C sont alignés.

③Les points E, B, D sont alignés.

④Les points D et E sont alignés.

Exercice 3 :

①Utilise le gabarit pour dire quel est le trait le plus long.

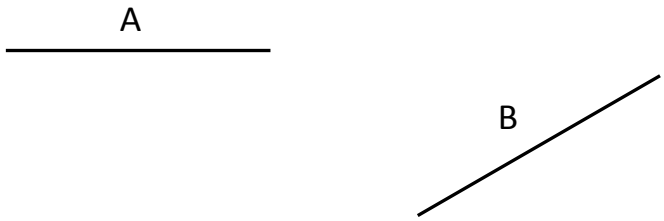

gabarit

Le trait le plus long est……

②Classe les traits du plus court au plus long en utilisant le gabarit.

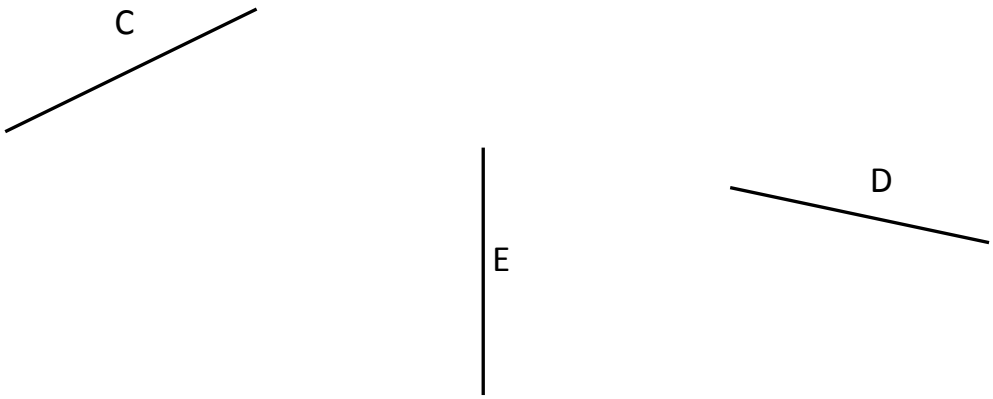

…… …… ……

Exercice 4 :

1. Ecris les coordonnées des dessins situés dans les cases.

▲ (,)
♥ (,)
◎ (,)
✚ (,)

	A	B	C	D	E	F
1				▲		
2		♥				
3						
4					◎	
5	✚					
6						

2. Dessine les formes demandées dans les cases correspondantes.

■ (D,5)
✸ (C,4)
● (F,3)
▬ (B,1)

Exercice 5 :

1. Ecris les coordonnées des dessins situés sur les nœuds du quadrillage.

▲ (,)
♥ (,)
◎ (,)
✚ (,)

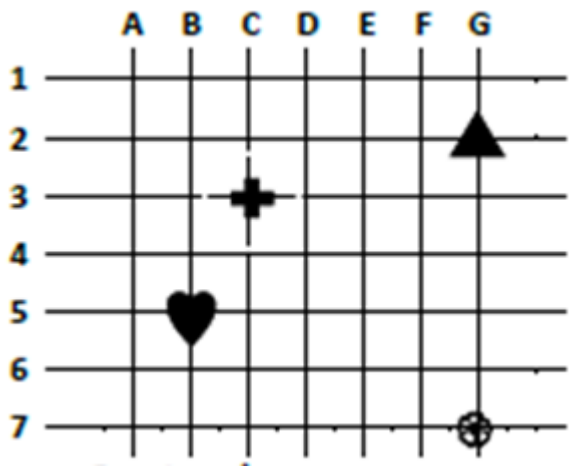

2. Dessine les formes demandées sur les nœuds du quadrillage.

■ (A,6)
✸ (D,2)
● (F,4)
▬ (E,5)

GRANDEURS ET MESURES

Exercice 1 : mesurer des segments (1)

On a tracé des segments [AB], [CD], [EF] et [GH].
Mesure ces segments en centimètres à l'aide de ta règle et complète le tableau.

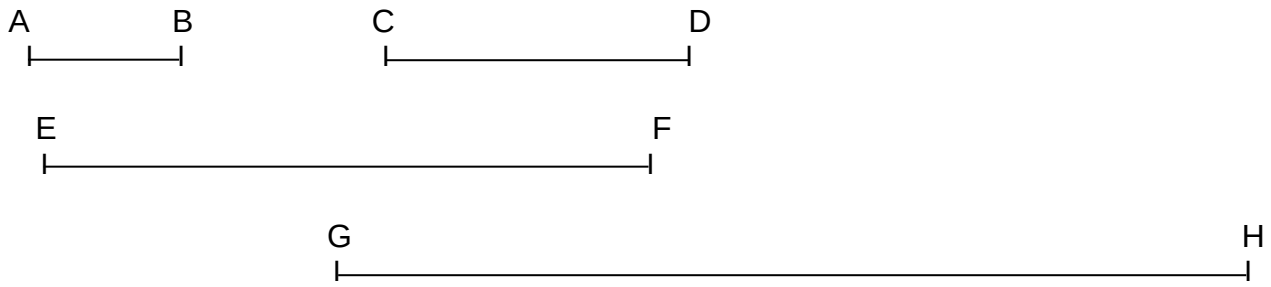

segments	mesures en cm
[AB]	
[CD]	
[EF]	
[GH]	

Exercice 2: mesurer des segments (2)

Mesure les 5 segments [AB] [BC] [CD] [DE] et [EA] puis écris-les dans le tableau.

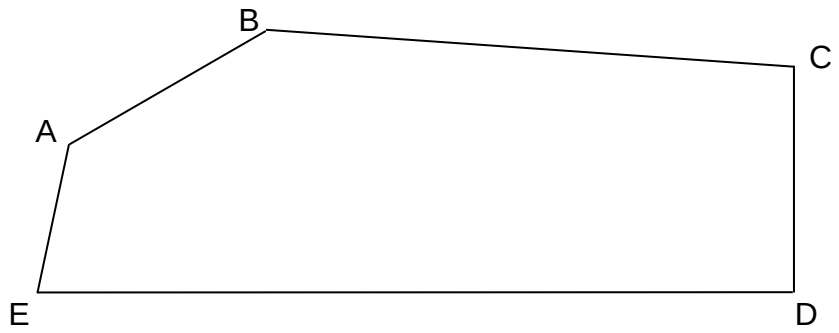

segments	mesures en cm
[AB]	
[BC]	
[CD]	
[DE]	
[EA]	

Exercice 3 : utiliser un calendrier pour comparer des durées

juillet		août	
l	1	j	1
m	2	v	2
m	3	s	3
j	4	d	4
v	5	l	5
s	6	m	6
d	7	m	7
l	8	j	8
m	9	v	9
m	10	s	10
j	11	d	11
v	12	l	12
s	13	m	13
d	14	m	14
l	15	j	15
m	16	v	16
m	17	s	17
j	18	d	18
v	19	l	19
s	20	m	20
d	21	m	21
l	22	j	22
m	23	v	23
m	24	s	24
j	25	d	25
v	26	l	26
s	27	m	27
d	28	m	28
l	29	j	29
m	30	v	30
m	31	s	31

Léo part en vacances du 6 juillet au 15 juillet inclus.

Marie part en vacances du 10 août au 21 août inclus.

Compte le nombre de jours de vacances de chaque enfant.
(Aide-toi du calendrier !)
Léo part _____ jours.

Marie part _____ jours.

Qui part le plus longtemps en vacances ? _____

Exercice 4 : connaître la relation entre euro et centime d'euro (1)

Consigne : Entoure les pièces que tu dois donner pour les échanger contre 1 pièce de 1 euro.

Exercice 5 : connaître la relation entre euro et centime d'euro (2)

Consigne : Entoure les pièces que tu dois donner pour les échanger contre 1 pièce de 1 euro.

Exercice 6 : résoudre des problèmes de longueur.

La distance entre Metz et Nancy est de 52 km.

Quelle est la distance parcourue lors d'un aller-retour entre les 2 villes ?

(Ecrivez vos recherches et vos calculs dans le premier cadre et complétez la phrase-réponse dans le deuxième cadre.)

La distance parcourue lors d'un aller-retour entre les 2 villes est de _____ km.

ORGANISATION ET GESTION DE DONNEES

Exercice 1 :

Le 26 janvier, 14 élèves de CP et 12 élèves de CE1 partent en sortie scolaire.
Ils partent à 8 heures et doivent parcourir 35 km pour s'y rendre.
Ils seront de retour à 12 heures. Le maître et 3 parents les accompagnent.

1/ Combien y a-t-il d'élèves au CP ?_____

2/ Combien y a-t-il d'adultes? _____

2/ Combien y a-t-il d'élèves au CE1 ?_____

4/ A quelle heure partent-ils ?_____

5/ Quelle distance vont-ils parcourir pour s'y rendre ?_____

Exercice 2 :

Vêtements	Quantité	Prix unitaire	Prix total
tee-shirt	2	15 €	30 €
pantalon	3	32 €	96 €
pull	3	20 €	60 €
chemise	4	25 €	100 €
Total	**12**		**286 €**

1/ Quel est le prix total d'un pantalon ?_____

2/ Quel est le prix d'un pull ?_____

3/ Quel est le prix total des vêtements ?_____

4/ Quel vêtement coûte 25 € ?_____